Die Fitnesskasse

Freudenberg BKK

AZUBI-EINSTELLUNGSTEST

Hallo Berufsstarter!

Immer häufiger verlangen Unternehmen mehr von Dir als eine Bewerbungsmappe. Neben Anschreiben und Lebenslauf wollen sie sehen, wie Du Dich im Einstellungstest schlägst.

Wenn Du zum Einstellungstest geladen wurdest, hast Du bereits die erste Hürde gemeistert. Klasse!

Die Tests bestehen oft aus den Kategorien Allgemeinwissen, Sprache, Mathematik, Logik, Konzentrationsvermögen, technisches Verständnis und visuelles Denkvermögen. Je nach Beruf wählt das Unternehmen gezielt bestimmte Aufgaben aus und erstellt so einen maßgeschneiderten Einstellungstest, der genau auf das jeweilige Anforderungsprofil abgestimmt ist.

Beim Einstellungstest geht es nicht nur um Wissen und logisches Denken, die Zeit spielt immer eine wichtige Rolle. Also üben, üben ... Am besten gleich mit den Testfragen in dieser Broschüre beginnen.

Jeder Test stellt nur eine Momentaufnahme dar. Hast Du einen ungünstigen Tag erwischt und im Einstellungstest schlecht abgeschnitten, gib den Berufswunsch nicht gleich auf – ein zweiter Versuch kann sich lohnen.

Wir drücken Dir alle Daumen und wünschen viel Erfolg bei bester Gesundheit.

Bei Fragen rund um die Sozialversicherung im Allgemeinen, die Krankenversicherung im Besonderen und bei einem gesunden Start in den Job sind wir Dein Ansprechpartner.

Deine BKK Freudenberg

Freudenberg BKK

INHALTSVERZEICHNIS

Seite		Rubrik
4	1.	Zum Aufwärmen
4 – 5	2.	Allgemeinwissen
6	3.	Wirtschaftsfragen
6	4.	Rechnen
7	5.	Bundesländer der Bundesrepublik Deutschland
8	6.	Rechtschreibung
8	7.	Schlussfolgerungen
9	8.	Technisches Verständnis
10	9.	Spiegelbilder erkennen
11	10.	Zahlensymbole
12	11.	Wortgleichungen
12	12.	Sprichwörter verstehen
13	13.	Vertauschte Wörter
13	14.	Rechenkonzentration
14	15.	Unmöglichkeiten
15	16.	Zahlen verbinden
16	17.	Genaues Beobachten
17	18.	Rechnerisches Denken
18	19.	Streichkonzert der Buchstaben
19 – 21		Notizen
23		Lösungen

1. Zum Aufwärmen

Löse die Aufgabe in 5 Minuten.

Beispiel:

Das Gemeinsame an Apfelsine und Apfel ist Obst.

Aufgaben:

1. Was ist das Gemeinsame von Elefant und Veilchen?

2. Wenn drei Tage vor gestern Mittwoch war, welcher Tag wird morgen sein?

3. Wenn alle Krokodile fliegen könnten und alle Riesen Krokodile wären, könnten Riesen dann fliegen?

4. Gibt es Eisbären in der Antarktis?

☐ Ja ☐ Nein

5. Gibt es den Jaguar in Afrika?

☐ Ja ☐ Nein

2. Allgemeinwissen

Nur eine Lösung ist richtig!
(Kreuze an)

1. Aus welcher Steuer ergibt sich das meiste Steueraufkommen?

A Vergnügungssteuer ☐
B Vermögenssteuer ☐
C Umsatzsteuer ☐
D Lohnsteuer ☐

2. Wie viele Chromosomen hat die menschliche Zelle?

A 38 ☐
B 42 ☐
C 46 ☐
D 50 ☐

3. Was ist der bessere Wärmeleiter?

A Glas ☐
B Kunststoff ☐
C Metall ☐
D Silber ☐

4. Wer sagte, Politik sei die Kunst des Möglichen?

A Bismarck ☐
B Lafontaine ☐
C Kennedy ☐
D Churchill ☐

5. Wer ist der Erfinder von Mickey Mouse?

A Donald Duck ☐
B Walt Disney ☐
C Steven Spielberg ☐
D Ronald Reagan ☐

6. Zu welchem Land gehört Grönland?

A Kanada ☐
B Island ☐
C Russland ☐
D USA ☐
E Dänemark ☐

7. Welches dieser Tiere ist kein Säugetier?

A Pottwal ☐
B Delphin ☐
C Seehund ☐
D Katzenhai ☐
E Walross ☐

8. Was bedeutet die Kombination der beiden folgenden Zeichen?AΩ

A Ampère und Ohm ☐
B Ist- und Soll-Wert ☐
C Vollkommenheit ☐
D Anfang und Ende ☐
E Asterix und Obelix ☐

9. Welche Oper stammt nicht von Mozart?

A Don Giovanni ☐
B Zauberflöte ☐
C Die Hochzeit des Figaro ☐
D La Bohème ☐
E Cosi fan tutte ☐

10. Von wem wurde die Sixtinische Kapelle im Vatikan gestaltet?

A Leonardo da Vinci ☐
B Raffael ☐
C Botticelli ☐
D Rembrandt ☐
E Michelangelo ☐

11 In welchem Jahr sank die Titanic?

A 1908 ☐
B 1905 ☐
C 1914 ☐
D 1920 ☐
E 1912 ☐

12. Wann begann der 2. Weltkrieg?

A 5. August 1938 ☐
B 1. September 1939 ☐
C 8. Mai 1939 ☐
D 9. November 1938 ☐

13. Wie viele Bit hat ein Byte?

A 2 ☐
B 8 ☐
C 2,8 ☐
D 1024 ☐
E 1.000.000 ☐

14. Der erste Bundeskanzler der Bundesrepublik Deutschland war ...?

A Theodor Heuss ☐
B Ludwig Erhardt ☐
C Helmut Kohl ☐
D Konrad Adenauer ☐
E Friedrich Ebert ☐

15. Wer ist derzeit Bundeskanzler der Bundesrepublik Deutschland?

A Joschka Fischer ☐
B Gerhard Schröder ☐
C Angela Merkel ☐
D Helmut Kohl ☐
E Hans Eichel ☐

16. Was ist ein Transistor?

A ein kleines Radio ☐
B ein Übertragungsgerät ☐
C ein innerer Widerstand ☐
D ein elektrisches Bauelement ☐

17. Welcher Politiker spielte im 2. Weltkrieg keine wichtige Rolle?

A Stalin ☐
B Churchill ☐
C Adenauer ☐
D De Gaulle ☐

18. Welches Land grenzt nicht an Deutschland?

A Polen ☐
B Belgien ☐
C Luxemburg ☐
D Italien ☐

3. Wirtschaftsfragen

Löse die Aufgabe in 5 Minuten.
(Kreuze an)

1. Wer diktiert in Deutschland die Preise?

A die Regierung ☐
B die Gewerkschaften ☐
C die Unternehmer ☐
D niemand diktiert in Deutschland die Preise ☐

2. Was ist das Bruttoeinkommen?

A das Einkommen vor Abzug von Steuern und Abgaben ☐
B das Einkommen nach Abzug von Steuern und Abgaben ☐
C das Einkommen des Staates, also Steuern und Abgaben ☐
D das Einkommen des Staates ohne Steuern und Abgaben ☐

3. Wozu kann ein Tarifpartner berechtigt sein?

A zum Abschluss von Bus- und Bahntarifen ☐
B zum Abschluss von Tarifverträgen ☐
C zum Abschluss eines Partnerschaftstarifs ☐
D zum Abschluss von Mondscheintarifen ☐

4. Worauf beruht eine Marktwirtschaft?

A auf dem Mechanismus von Angebot und Nachfrage ☐
B auf dem Mechanismus von Lohn und Gehalt ☐
C auf dem Mechanismus von Geben und Nehmen ☐
D auf dem Mechanismus von Zins und Kredit ☐

5. Was ist eine Rendite?

A der Jahresertrag einer ausgewählten Rente ☐
B der Jahresertrag eines ausgespielten Gewinns ☐
C der Jahresertrag eines angehäuften Gewinns ☐
D der Jahresertrag eines angelegten Kapitals ☐

6. Wonach wird ein Zins berechnet?

A nach der amtlichen Zinstabelle ☐
B immer variabel ☐
C immer in Prozenten ☐
D immer zum günstigsten Tarif ☐

7. Was ist eine Konjunktur?

A Lage der Sterne am Himmel ☐
B Lage der Arbeitslosen in Deutschland ☐
C Lage der gesamten Wirtschaft ☐
D Lage des gesamten Einzelhandels ☐

4. Rechnen

Löse die Aufgaben in 15 Minuten.

1. Ein Trinkvorrat reicht für 16 Personen 24 Tage aus. **Wie viele Tage würde der Vorrat für acht Personen ausreichen?**

2. Zwei Brüder, die sich in ihrem Alter um lediglich sieben Jahre unterscheiden, sind zusammen 39 Jahre alt. **Wie alt ist der jüngere Bruder?**

3. Zwei Radfahrer begegnen sich um 11 Uhr. **Wie viele Kilometer sind sie um 12:20 Uhr voneinander entfernt, wenn der eine 7,5 km und der andere 12 km in der Stunde fährt?**

4. Eine Beute von 576 Talern soll im Verhältnis von 4:5 auf zwei Raubritter verteilt werden. **Wie viele Taler bekommt der Ritter, der die kleinere Beute erhält?**

5. 87 kg Äpfel sind in zwei Kisten verpackt. In der einen Kiste sind elf kg Äpfel mehr als in der anderen. **Wie viele Kilo Äpfel sind in der kleineren?**

6. Ein Kind hat 1,20 Euro in 5- und 10-Cent-Stücken bei sich. Dieser Betrag setzt sich aus insgesamt 17 Geldstücken zusammen. **Wie viele 10-Cent-Stücke sind darunter?**

5. Bundesländer

Löse die Aufgabe in 5 Minuten.

Führe nachfolgend alle Bundesländer der Bundesrepublik Deutschland plus deren Landeshauptstädte auf

Bundesland	Hauptstadt
1	1
2	2
3	3
4	4
5	5
6	6
7	7
8	8
9	9
10	10
11	11
12	12
13	13
14	14
15	15
16	16

6. Rechtschreibung

Löse die Aufgabe in 5 Minuten.

Welche Schreibweise ist jeweils allein richtig? (Kreuze an)

1
A Gutmüthigkeit ☐
B Guthmütigkeit ☐
C Gutmütigkeit ☐
D Gutmüdigkeit ☐
E Gutmüdichkeit ☐

2
A Karusel ☐
B Karussel ☐
C Karusell ☐
D Karussell ☐
E Karrussel ☐

3
A unentgeldlich ☐
B unentgeldtlich ☐
C unendgeldlich ☐
D unendtgeldlich ☐
E unentgeltlich ☐

4
A es geschah im Dunkel der nacht ☐
B es Geschah im dunkel der Nacht ☐
C es geschah im dunkel der Nacht ☐
D es geschah im Dunkel der Nacht ☐
E es geschar im Dunkel der Nacht ☐

5
A sie kann gut Wäschewaschen ☐
B sie kann gut Wäsche Waschen ☐
C sie kann gut Wäsche waschen ☐
D sie kann gut wäschewaschen ☐
E sie kann gut wäsche waschen ☐

6
A ein einzelnes paar Socken ☐
B ein einzelnes Paar Socken ☐
C ein einzelnes Paar socken ☐
D ein Einzelnes Paar Socken ☐
E ein Einzelnes paar Socken ☐

7. Schlussfolgerungen

Löse die Aufgabe in 5 Minuten.

1. Welche Lampe ist die hellste?

A Lampe A ist dunkler als Lampe B ☐
B B ist heller als C ☐
C C ist gleich hell wie C ☐
D B ist heller als D ☐
E D ist heller als A ☐

2. Wer ist der schlechteste Schüler?
Paul wäre der beste Schüler, wenn Robert nicht wäre. Friederike und Simone haben immer die gleichen Noten. Anna ist nicht besser als Simone. Friederike ist ein bisschen besser als Anna. **Wer ist also der/die schlechteste Schüler/in?**

A keine Lösung ist möglich ☐
B Friederike und Simone ☐
C Robert ☐
D Paul ☐
E Anna ☐

3. Welche Edelsteine findet man am seltensten?
Topazine werden nicht am häufigsten gefunden, jedoch häufiger als Diamantine. Rubintine und Turkisine findet man gleich oft, aber Ametistine werden doch häufiger gefunden. Jedoch werden Ametistine seltener als Topazine gefunden. Topazine sind viel schöner als Ametistine. Granatine findet man nicht so oft wie Diamantine.

A Topazine ☐
B Rubintine und Turkisine ☐
C keine Lösung ist möglich ☐
D Turkisine ☐
E Diamantine ☐
F Granatine ☐
G Rubintine ☐

8. Technisches Verständnis

Löse die Aufgaben in 5 Minuten. (Kreuze an)

1. Welche der drei Achsen A, B oder C dreht sich am schnellsten? Sollten sich Deiner Meinung nach alle Achsen gleich schnell drehen, so lautet die Lösung D.

A ☐
B ☐
C ☐
D ☐

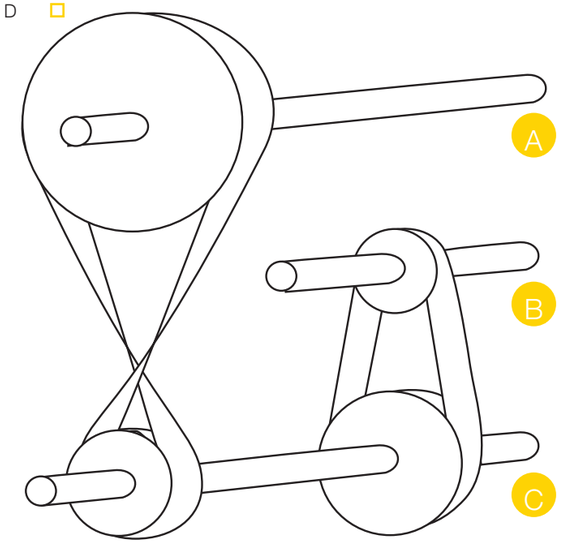

2. In welche Richtung fliegt die Kugel, wenn man sie am markierten Ort loslässt?

1 ☐
2 ☐
3 ☐

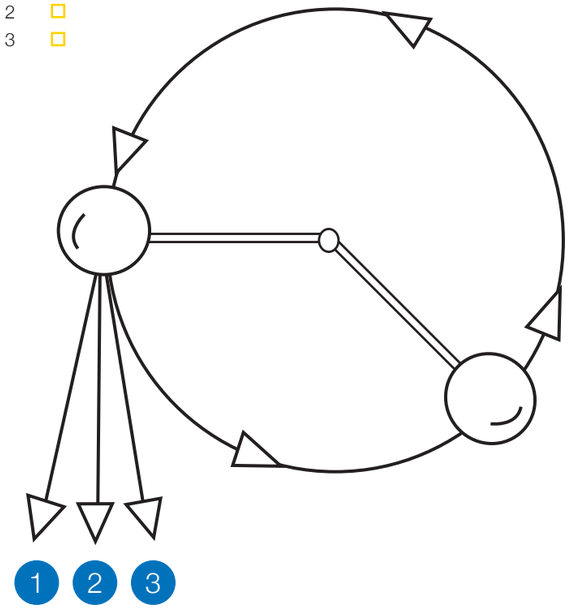

3. Fünf Stahlträgerprofile stehen zur Auswahl.
Welches Profil verspricht die stärkste Belastung auszuhalten?

A ☐ B ☐ C ☐ D ☐ E ☐

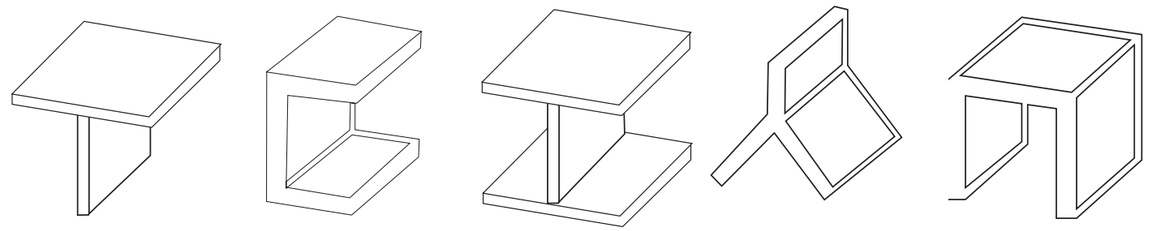

9. Spiegelbilder erkennen

Löse die Aufgabe in 5 Minuten.

Die Figuren lassen sich durch einfaches Verschieben / Drehen zur Deckung bringen – bis auf eine. Die Bildausschnitte können variieren.

Welche Figur es ist, entdeckst Du bestimmt!

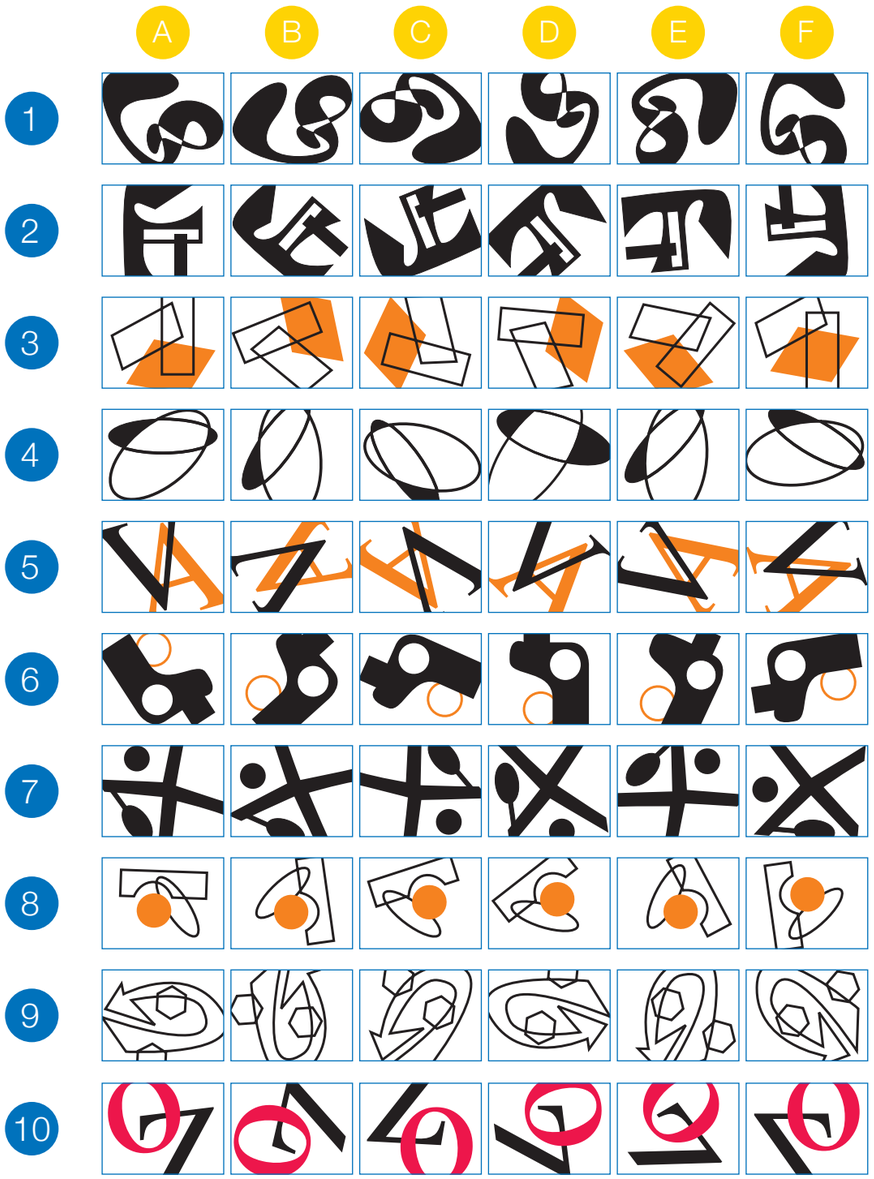

Lösung:

10. Zahlensymbole

Löse die Aufgaben in 15 Minuten.

Beispiel:

= 1, 3, 4, 0, 7, 2

Nur wenn die Zahl 7 für das Quadrat eingesetzt wird, kann das Ergebnis zweistellig werden.

= 2, 4, 5, 1, 8, 3

Denn nur die 5 bleibt als Einerstelle wie auch als Multiplikand im Ergebnis der Einerstelle 5.

Aufgaben:

1

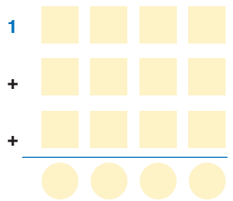

= 7, 0, 4, 3, 5, 6

Lösung:

2

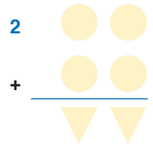

= 1, 9, 5, 8, 3, 7

Lösung:

3

= 1, 9, 5, 8, 3, 7

Lösung:

4

= 4, 5, 2, 1, 9, 6

Lösung:

5

= 3, 0, 9, 1, 7, 8

Lösung:

6

= 1, 3, 9, 0, 7, 5

Lösung:

11. Wortgleichungen

Löse die Aufgaben in 4 Minuten. (Kreise ein)

Beispiel:

... verhält sich zu Blindheit wie Ohr zu ...

A Auge	**1** hören
(**B**) Sehfähigkeit	**2** Gehör
C Brille	**3** Taubheit
D Blindenhund	(**4**) Schwerhörigkeit

Aufgaben:

1 ... verhält sich zu Länge wie Gramm zu ...

A Entfernung	**1** Waage
B Geschwindigkeit	**2** Gewicht
C Zentimeter	**3** abwiegen
D Abstand	**4** Kilo

2 ... verhält sich zu niemand wie alles zu ...

A manche	**1** mehr
B jeder	**2** immer
C viele	**3** nichts
D einige	**4** nie

3 ... verhält sich zu Kreis wie Würfel zu ...

A Kegel	**1** Quadrat
B rund	**2** Anstrengung
C Kugel	**3** Lob
D Kuppel	**4** Chef

4 ... verhält sich zu Krankheit wie Schweiß zu ...

A Arzt	**1** Erfolg
B Tablette	**2** Anstrengung
C Fieber	**3** Lob
D Thermometer	**4** Chef

12. Sprichwörter verstehen

Löse die Aufgaben in 5 Minuten.

Von den folgenden zwanzig Sprichwörtern sind zehn nummeriert und zehn mit Buchstaben gekennzeichnet. Je eines der nummerierten Sprichwörter hat einen ähnlichen Sinn wie eines der mit Buchstabe gekennzeichneten. Setze jeweils den Buchstaben in die zweite Spalte ein, der dem ähnlichen Sprichwort vorangestellt ist.

Beispiel:

	Steter Tropfen höhlt den Stein.	**X**
X	Viele Streiche fällen eine Eiche.	

Aufgaben:		**Buchstabe**
1.	Keine Rosen ohne Dornen.	
2.	Je fetter der Floh, desto magerer der Hund.	
3.	Man muss das Eisen schmieden, solange es heiß ist.	
4.	Was Hänschen nicht lernt, lernt Hans nimmermehr.	
5.	Prüfe zuerst, dann sprich und handle.	
6.	Das Kleid macht nicht den Mann.	
7.	Gemahlen Korn gibt keine Ernte.	
8.	Wenn die Herren vom Rathaus kommen, sind sie am klügsten.	
9.	Dem Mutigen gehört die Welt.	
10.	Was du nicht willst, was man dir tut das füg auch keinem andern zu.	

A Wer in der Jugend nicht sammelt, muss im Alter sparen.
B Der Schein trügt.
C Je ärmer der Bauer, desto reicher der Händler.
D Eier in der Pfanne geben Kuchen, aber keine Küken.
E Quäle nie ein Tier zum Scherz, denn es fühlt wie du den Schmerz.
F Frisch gewagt, ist halb gewonnen.
G Kein Lohn ohne Arbeit.
H Vorgetan und nachbedacht hat manchen schon viel Leid gebracht.
I Nachher weiß jeder, wie man hätte ausspielen müssen.
J Segle, solange der Wind weht.

13. Vertauschte Wörter

Löse die Aufgabe in 5 Minuten.

In jedem der folgenden Sätze wurden zwei Wörter vertauscht. Umkreise diese beiden Wörter.

Beispiel:

(Hut) trägt einen (Heinz)

Aufgaben:

1 Ein ist Luft Gas.

2 Man kann Zucker Seewasser aus nicht gewinnen.

3 Drei Dreieck hat jedes Seiten.

4 Debatten Sie in seien niemals ironisch.

5 Treuen haben wir unseren leider Hund verloren.

6 Das bunten pflückt der Mutter einen Kind Strauß.

7 Es läuft laufen alles so wie es nicht sollte.

8 Der Institut ist zu Gast im Kinderfunk zu Fellbach.

9 Ich möchte Sie mit einem vertraut für mich unwahrscheinlichen Vorgang wenigstens machen.

10 Der Gewerbes konnte die Konjunktur des Paragraph nicht verhindern.

14. Rechenkonzentration

Löse die Aufgabe in 5 Minuten.

Rechne die obere Zeile zuerst aus, dann die untere und behalte die Ergebnisse im Kopf. Du darfst nichts aufschreiben. Dann gilt folgende Regel: Die kleinere Zahl ist immer von der größeren abzuziehen, dieses Ergebnis darfst Du dann aufschreiben. Sonst sollen aber keine Notizen gemacht werden.

Beispiel:

2 + 8 - 7 **Lösung:** **4**
4 + 5 - 2

Obere Zeile: Ergebnis 3
Untere Zeile: Ergebnis 7
Lösung: 7 – 3 = **4**

Aufgaben:

A	5 - 2 + 9 4 + 8 + 6	**Lösung:**	
B	9 - 5 + 7 4 + 3 + 6	**Lösung:**	
C	2 + 8 - 7 6 - 5 + 9	**Lösung:**	
D	8 - 3 + 7 9 - 5 + 3	**Lösung:**	
E	2 + 6 + 7 5 - 3 + 7	**Lösung:**	
F	8 + 4 - 9 3 + 8 - 5	**Lösung:**	
G	2 + 7 - 4 6 + 3 - 2	**Lösung:**	
H	8 - 6 + 5 4 + 9 - 7	**Lösung:**	
I	4 - 3 + 6 5 + 7 - 3	**Lösung:**	
J	8 + 6 - 4 7 - 5 + 7	**Lösung:**	

15. Unmöglichkeiten

Löse die Aufgabe in 5 Minuten. (Kreuze an)

Beispiel:

Unmöglich ist es, dass ein Zebra ...

A kleiner ist als ein Pferd. ☐
B kariert gestreift ist. ☐
C in einem Stall lebt. ☒
D als Reittier dient. ☐

Aufgaben

1. Unmöglich ist es, dass eine Flüssigkeit ...

A verdampft. ☐
B kristallisiert. ☐
C sich vermischt. ☐
D eingefärbt wird. ☐
E sich in einem normalen Sieb transportieren lässt. ☐
F eingefroren wird. ☐

2. Unmöglich ist es, dass eine Flüssigkeit ...

A eine bestimmte Farbe annimmt. ☐
B einen Geruch aufnimmt. ☐
C eine bestimmte Gestalt annimmt. ☐
D eine spezielle Konsistenz erreicht. ☐
E ein Volumen hat. ☐
F eine Verbindung eingeht. ☐

3. Unmöglich ist es, ein Lied zu singen ohne ...

A Notenkenntnis. ☐
B Unterstützung. ☐
C Anteilnahme. ☐
D Energie zu verbrauchen. ☐
E Begleitung. ☐
F Anleitung. ☐

4. Ein Mensch kann auf keinen Fall ...

A ewig leben. ☐
B ohne Nahrung auskommen. ☐
C wie ein Fisch schwimmen. ☐
D auf Fernsehen verzichten. ☐
E wie ein Vogel fliegen. ☐
F über sehr lange Zeit ohne Schlaf auskommen. ☐

5. Fische können auf keinen Fall auf dem Lande leben, weil ...

A sie das Wasser zu sehr lieben. ☐
B das Wasser bessere Nahrung für sie hat. ☐
C sie von der Landwirtschaft nichts verstehen. ☐
D sie an der Luft vertrocknen würden. ☐
E sie Kiemen besitzen. ☐
F sie nicht Traktor fahren können. ☐

6. Es ist völlig unmöglich, in einem Kühlschrank mit kleinem einfachem Eisfach ...

A Esswaren aufzubewahren. ☐
B Eiswürfel herzustellen. ☐
C Eis zu schmelzen. ☐
D hochprozentigen Rum gefrieren zu lassen. ☐
E Tiefkühlkost aufzubewahren. ☐
F Lebensmittel kühl zu halten. ☐

7. Es ist völlig unmöglich, dass ein Richter ...

A immer Recht hat. ☐
B sich nie irrt. ☐
C selbst zum Verbrecher wird. ☐
D unsterblich ist. ☐
E fliegt wie ein Vogel. ☐
F nie einen Fehler macht. ☐

8. Auf keinen Fall kann ein Lichtstrahl ...

A in seine Spektralfarben zerlegt werden. ☐
B umgeleitet werden. ☐
C reflektiert werden. ☐
D verstärkt werden. ☐
E durch ein Brennglas gebündelt werden. ☐
F durch eine Konvexlinse zerstreut werden. ☐

16. Zahlen verbinden

Löse die Aufgabe in 1 Minute.

Versuche in 30 Sekunden die Zahlen 1 bis 30, beginnend bei 1, in der richtigen Reihenfolge zu verbinden.
Fange bei A an:

A



B



17. Genaues Beobachten

Löse die Aufgabe in 5 Minuten.
Schaue genau hin: Zwei sind gleich, der Dritte unterscheidet sich von den beiden anderen. Diesen kreuze an.

Beispiel:



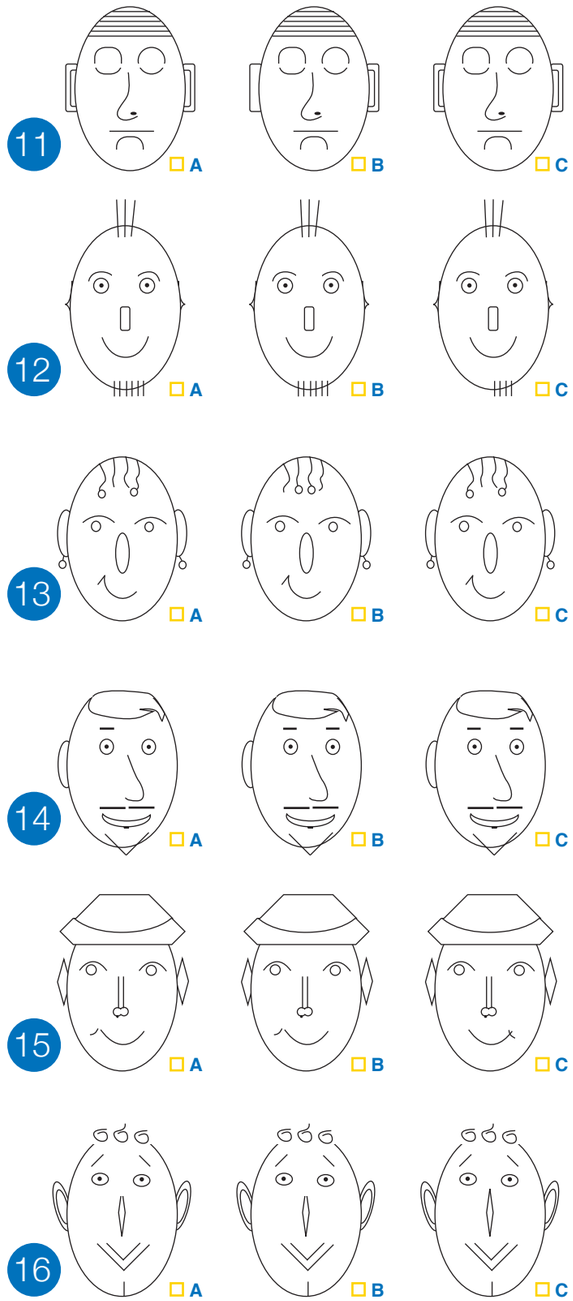

18. Rechnerisches Denken

Löse die Aufgaben in 3 Minuten im Kopf.

Aufgabe 1:

Vater und Sohn sind zusammen 85 Jahre alt. Der Vater ist 25 Jahre älter.
Wie alt ist der Sohn?

Lösung:

Aufgabe 2:

Ein Gemüsegarten ist sieben m breit und neun Meter lang. Es soll um 1/7 seiner Fläche verkleinert werden.
Wie groß ist die Fläche danach?

Lösung:

Aufgabe 3:

In einem Korb liegen 42 Äpfel, und zwar doppelt so viele rote wie grüne.
Wie viele grüne Äpfel sind das?

Lösung:

19. Streichkonzert der Buchstaben

Schaue Dir erst die Reihen an und lese dann weiter. Und jetzt die Aufgabe: Markiere jedes Vorkommen von Buchstaben, die mit insgesamt zwei Strichen ausgezeichnet sind. Streiche an: Buchstaben mit zwei Strichen oberhalb sowie Buchstaben mit zwei Strichen unterhalb und natürlich auch Buchstaben mit einem Strich oben plus einem Strich unten.

Du hast 2 Minuten Zeit.

a b c b c a a b c c a a c c b a b a c c a c c a b c a a c c b a c a

a b c b c a a b c c a a c c b a b a c c a c c a b c a a c c b a c a

a b c b c a a b c c a a c c b a b a c c a c c a b c a a c c b a c a

a b c b c a a b c c a a c c b a b a c c a c c a b c a a c c b a c a

a b c b c a a b c c a a c c b a b a c c a c c a b c a a c c b a c a

Notizen

Lösungen

1. Zum Aufwärmen
1. Lebewesen
2. Montag
3. Ja
4. Nein
5. Nein

2. Allgemeinwissen
1.	D	10.	E
2.	C	11.	E
3.	C	12.	B
4.	D	13.	B
5.	B	14.	D
6.	E	15.	C
7.	D	16.	D
8.	D	17.	C
9.	D	18.	D

3. Wirtschaftsfragen
1.	D	5.	D
2.	A	6.	C
3.	B	7.	C
4.	A		

4. Rechnen
1.	48	4.	256
2.	16	5.	38
3.	26	6.	7

5. Alle Bundesländer der Bundesrepublik Deutschland und Landeshauptstädte
Baden-Württemberg	Stuttgart
Bayern	München
Berlin	Berlin
Brandenburg	Potsdam
Bremen	Bremen
Hamburg	Hamburg
Hessen	Wiesbaden
Mecklenburg-Vorpommern	Schwerin
Niedersachsen	Hannover
Nordrhein-Westfalen	Düsseldorf
Rheinland-Pfalz	Mainz
Saarland	Saarbrücken
Sachsen	Dresden
Sachsen-Anhalt	Magdeburg
Schleswig-Holstein	Kiel
Thüringen	Erfurt

6. Rechtschreibung
1.	C	4.	D
2.	D	5.	C
3.	E	6.	B

7. Schlussfolgerungen
1. B
2. E
3. C

8. Technisches Verständnis
1. B
2. B
3. C

9. Spiegelbilder erkennen
1.	C	6.	E
2.	A	7.	D
3.	F	8.	A
4.	D	9.	C
5.	B	10.	F

10. Zahlensymbole
1.	3	4.	2
2.	8	5.	0
3.	9	6.	5

11. Wortgleichungen
1.	C2	3.	C1
2.	B3	4.	C2

12. Sprichwörter verstehen
1.	G	6.	B
2.	C	7.	D
3.	J	8.	I
4.	A	9.	F
5.	H	10.	E

13. Vertauschte Wörter
1.	Ein	Luft
2a.	Seewasser	nicht
2b.	Zucker	aus
3a.	Drei	jedes
3b.	Seiten	Dreieck
4.	Debatten	seien
5.	Treuen	leider
6.	bunten	Kind
7.	laufen	nicht
8.	Institut	Kinderfunk
9.	vertraut	wenigstens
10.	Gewerbes	Paragraph

14. Rechenkonzentration
A.	6	F.	3
B.	2	G.	2
C.	7	H.	1
D.	5	I.	2
E.	6	J.	1

15. Unmöglichkeiten
1.	E	6.	D
2.	C	7.	D
3.	D	8.	F
4.	A		
5.	E		

17. Genaues Beobachten
1.	B	9.	A
2.	C	10.	C
3.	B	11.	B
4.	A	12.	C
5.	A	13.	B
6.	C	14.	A
7.	C	15.	C
8.	B	16.	C

18. Rechnerisches Denken
1. 30
2. 54 qm
3. 14

19. Streichkonzert



Freudenberg BKK

BKK Freudenberg
Höhnerweg 2 – 4
69465 Weinheim

Service-Center Neuenburg
Freudenbergstraße 1
79395 Neuenburg

Internet
Service-Zeiten

www.bkk-freudenberg.de
Montag bis Donnerstag 8.00 – 17.00 Uhr
Freitag 8.00 – 16.30 Uhr

www.dsg1.de